1. Ткань, изображённая на рисунке, обладает

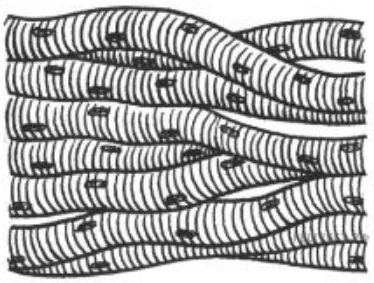

1) возбудимостью и проводимостью
2) способностью к непрерывному делению
3) возбудимостью и сократимостью
4) способностью вырабатывать антитела

2. Какая ткань выстилает носовую полость человека?

1) рыхлая соединительная
2) мерцательный эпителий
3) поперечно-полосатая мышечная
4) гладкая мышечная

3. Ротовая полость человека выстлана тканью, в которой клетки

1) плотно прилегают друг к другу
2) располагаются рыхло
3) имеют поперечную исчерченность
4) соединены друг с другом отростками

4. В дыхательных путях происходит согревание воздуха, так как

1) они содержат железы, выделяющие слизь
2) их стенки состоят из одного слоя клеток
3) они выстланы ресничным эпителием
4) их стенки пронизаны множеством кровеносных сосудов

5. Кроманьонцы, в отличие от своих предков, начали

1) пользоваться примитивными орудиями
2) охотиться
3) добывать огонь
4) заниматься творчеством

6. У человека и человекообразных обезьян различается

1) строение головного мозга
2) количество отделов головного мозга
3) количество позвонков в шейном отделе позвоночника
4) число хромосом в клетках тела

7. Какой вид ткани человека показан на рисунке?

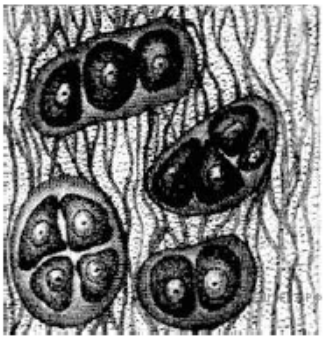

1) соединительная
2) гладкая мышечная
3) нервная
4) эпителиальная

8. Выберите три верных ответа из шести и запишите в таблицу цифры, под которыми они указаны.

Что из перечисленного ниже является функциями ткани, микрофотография препарата которой приведена на рисунке?

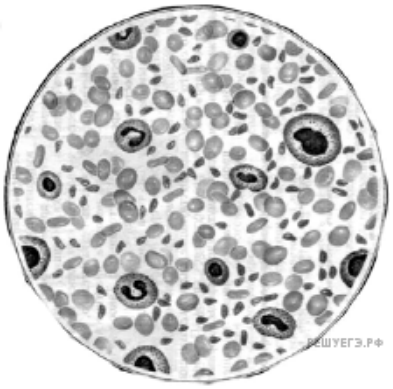

1) перенос нейромедиаторов
2) транспорт кислорода
3) превращение глюкозы в гликоген
4) защита от инфекций
5) удаление мочевины из мочевого пузыря
6) доставка питательных веществ к органам