1. На рисунке изображён археоптерикс — вымершее животное, обитавшее 150–147 млн лет назад.

Используя фрагмент «Геохронологической таблицы», определите, в какой эре и каком периоде обитал данный организм.

Это животное учёные считают переходной формой. Назовите классы, к которым можно отнести изображённое животное. Какие черты внешнего строения позволяют отнести его к этим классам?

Геохронологическая таблица

ЭРА		Период и продолжительность (в млн лет)	Животный и растительный мир
Название и продолжительность (в млн лет)	Начало (млн лет назад)		
Кайнозойская, 67	67	Антропоген, 1,5	Появление и развитие человека. Животный мир принял современный облик
		Неоген, 23,5	Господство млекопитающих и птиц
		Палеоген, 42	Появление хвостатых лемуров, позднее — парапитеков, дриопитеков. Бурный расцвет насекомых. Продолжается вымирание крупных пресмыкающихся. Исчезают многие группы головоногих моллюсков. Господство покрытосеменных растений
Мезозойская, 163	230	Меловой, 70	Появление высших млекопитающих и настоящих птиц, хотя зубастые птицы ещё распространены. Преобладают костистые рыбы. Сокращение папоротников и голосеменных растений. Появление и распространение покрытосеменных растений
		Юрский, 58	Появление первых птиц, примитивных млекопитающих, расцвет динозавров. Господство голосеменных. Процветание головоногих моллюсков
		Триасовый, 35	Начало расцвета пресмыкающихся. Появление костистых рыб
Палеозой, 340	Возможно, 570	Пермский, 55	Вымирание трилобитов. Возникновение зверозубых пресмыкающихся. Исчезновение каменноугольных лесов
		Каменноугольный, 75–65	Расцвет земноводных. Появление первых пресмыкающихся. Характерно разнообразие насекомых

2. На рисунке изображён медуллоза Ноэ, семенной папоротник — вымершее около 270 млн лет назад растение.

Используя фрагмент геохронологической таблицы, установите эру и период, в который вымирает данный организм, а также его возможного «близкого родственника» в современной флоре (ответ — на уровне отдела).

Какие черты строения характеризуют растение медуллоза Ноэ как высшее семенное растение?

Геохронологическая таблица

ЭРА		Период и продолжительность (в млн лет)	Животный и растительный мир
Название и продолжительность (в млн лет)	Начало (млн лет назад)		
Кайнозойская, 67	67	Антропоген, 1,5	Появление и развитие человека. Животный мир принял современный облик
		Неоген, 23,5	Господство млекопитающих и птиц
		Палеоген, 42	Появление хвостатых лемуров, позднее — парапитеков, дриопитеков. Бурный расцвет насекомых. Продолжается вымирание крупных пресмыкающихся. Исчезают многие группы головоногих моллюсков. Господство покрытосеменных растений
Мезозойская, 163	230	Меловой, 70	Появление высших млекопитающих и настоящих птиц, хотя зубастые птицы ещё распространены. Преобладают костистые рыбы. Сокращение папоротников и голосеменных растений. Появление и распространение покрытосеменных растений
		Юрский, 58	Появление первых птиц, примитивных млекопитающих, расцвет динозавров. Господство голосеменных. Процветание головоногих моллюсков
		Триасовый, 35	Начало расцвета пресмыкающихся. Появление костистых рыб
Палеозой, 340	Возможно, 570	Пермский, 55	Вымирание трилобитов. Возникновение зверозубых пресмыкающихся. Исчезновение каменноугольных лесов
		Каменноугольный, 75–65	Расцвет земноводных. Появление первых пресмыкающихся. Характерно разнообразие насекомых

3. На рисунке изображён трилобит — вымершее около 270 млн лет назад животное.

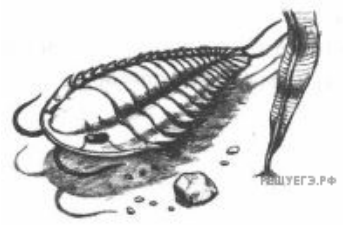

Используя фрагмент геохронологической таблицы, установите эру и период, в который вымер данный организм, а также тип, к которому относится изображённый организм. Укажите признаки, по которым он относится к указанному Вами типу.

Геохронологическая таблица

ЭРА		Период и продолжительность (в млн лет)	Животный и растительный мир
Название и продолжительность (в млн лет)	Возраст (в млн лет назад)		
Кайнозойская (новой жизни), 67	67	Антропоген, 1,5	Появление и развитие человека. Формирование существующих растительных сообществ. Животный мир принял современный облик
		Неоген, 23,5	Господство млекопитающих и птиц
		Палеоген, 42	Появление хвостатых лемуров, долгопятов, позднее — парапитеков, дриопитеков. Бурный расцвет насекомых. Продолжается вымирание крупных пресмыкающихся. Исчезают многие группы головоногих моллюсков. Господство покрытосеменных растений
Мезозойская (средней жизни), 163	230	Меловой, 70	Появление высших млекопитающих и настоящих птиц, хотя зубастые птицы ещё распространены. Преобладают костистые рыбы. Сокращение многообразия папоротников и голосеменных растений. Появление и распространение покрытосеменных растений
		Юрский, 58	Господство пресмыкающихся. Появление археоптерикса. Процветание головоногих моллюсков. Господство голосеменных
		Триасовый, 35	Начало расцвета пресмыкающихся. Появление первых млекопитающих, настоящих костистых рыб

	папоротников		
Девонский, 60	Расцвет щитковых. Появление кистепёрых рыб. Появление стегоцефалов. Распространение на суше высших споровых		
Силурийский, 30	Пышное развитие кораллов, трилобитов. Появление бесчелюстных позвоночных — щитковых. Выход растений на сушу — псилофиты. Широкое распространение водорослей		
Ордовикский, 60 Кембрийский, 70	Процветают морские беспозвоночные. Широкое распространение трилобитов, водорослей		
Протерозойская (ранней жизни), свыше 2000	2700		Органические остатки редки и малочисленны, но относятся ко всем типам беспозвоночных. Появление первичных хордовых — подтипа бесчерепных
Архейская (самая древняя в истории Земли),около 1000	Возможно, >3500		Следы жизни незначительны

4. На рисунке изображены псилофиты — вымершие растения.

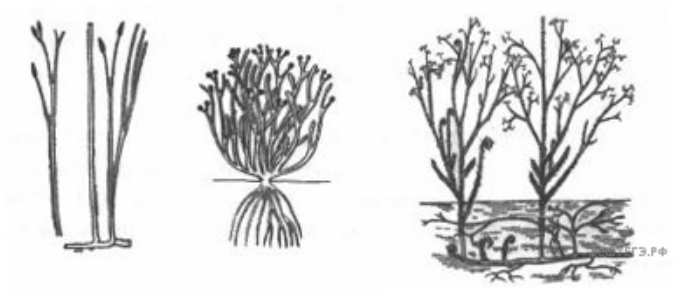

Используя фрагмент геохронологической таблицы, установите эру и период, в который появились данные организмы, а также возможного предка уровня отдела растений.

Укажите, по каким признакам псилофиты относятся к высшим споровым растениям.

Геохронологическая таблица

ЭРА, возраст в млн лет	Период	Растительный мир
Мезозойская, 240	**Мел**	Появляются и распространяются покрытосеменные; сокращаются папоротники и голосеменные
	Юра	Господствуют современные голосеменные, древние голосеменные вымирают
	Триас	Господствуют древние голосеменные; появляются современные голосеменные; семенные папоротники вымирают
Палеозойская, 570	**Пермь**	Появляются древние голосеменные; большое разнообразие семенных и травянистых папоротников; древовидные хвощи, плауны и папоротники вымирают
	Карбон	Расцвет древовидных папоротников, плаунов и хвощей (образовывали «каменноугольные леса»); появляются семенные папоротники; псилофиты исчезают
	Девон	Развитие, а затем вымирание псилофитов; возникновение основных групп споровых растений — плауновидных, хвощевидных, папоротниковидных; появление первых примитивных голосеменных; возникновение грибов
	Силур	Господство водорослей; выход растений на сушу — появление риниофитов (псилофитов)
	Ордовик	Расцвет водорослей
	Кембрий	Дивергентная эволюция водорослей; появление многоклеточных форм
Протерозойская, 2600		Широко распространены синезелёные и зелёные одноклеточные водоросли, бактерии; появляются красные водоросли

5. На рисунке изображён стегоцефал — вымершее животное, появившееся на Земле около 400 млн лет назад.

Используя фрагмент геохронологической таблицы, установите эру и период, в который обитал данный организм, а также возможного предка уровня класса животных.

Какие черты строения «возможного предка» позволяют сделать данные выводы?

Геохронологическая таблица

ЭРА		Период и продолжительность (в млн лет)	Животный и растительный мир
Название и продолжительность (в млн лет)	Возраст (в млн лет назад)		
Кайнозойская (новой жизни), 67	67	Антропоген, 1,5	Появление и развитие человека. Формирование существующих растительных сообществ. Животный мир принял современный облик
		Неоген, 23,5	Господство млекопитающих и птиц
		Палеоген, 42	Появление хвостатых лемуров, долгопятов, позднее — парапитеков, дриопитеков. Бурный расцвет насекомых. Продолжается вымирание крупных пресмыкающихся. Исчезают многие группы головоногих моллюсков. Господство покрытосеменных растений
Мезозойская (средней жизни), 163	230	Меловой, 70	Появление высших млекопитающих и настоящих птиц, хотя зубастые птицы ещё распространены. Преобладают костистые рыбы. Сокращение многообразия папоротников и голосеменных растений. Появление и распространение покрытосеменных растений
		Юрский, 58	Господство пресмыкающихся. Появление археоптерикса. Процветание головоногих моллюсков. Господство голосеменных
		Триасовый, 35	Начало расцвета пресмыкающихся. Появление первых млекопитающих, настоящих костистых рыб

Палеозойская (древней жизни), 340	Возможно, 570	Пермский, 55	Быстрое развитие пресмыкающихся. Возникновение зверозубых пресмыкающихся. Вымирание трилобитов. Исчезновение каменноугольных лесов. Богатая флора голосеменных
		Каменноугольный, 75—65	Расцвет земноводных. Появление первых пресмыкающихся. Появление летающих форм насекомых, пауков, скорпионов. Заметное уменьшение трилобитов. Расцвет папоротникообразных. Появление семенных папоротников
		Девонский, 60	Расцвет щитковых. Появление кистепёрых рыб. Появление стегоцефалов. Распространение на суше высших споровых
		Силурийский, 30	Пышное развитие коралов, трилобитов. Появление бесчелюстных позвоночных — щитковых. Выход растений на сушу — псилофиты. Широкое распространение водорослей
		Ордовикский, 60 Кембрийский, 70	Процветают морские беспозвоночные. Широкое распространение трилобитов, водорослей
Протерозойская (ранней жизни), свыше 2000	2700		Органические остатки редки и малочисленны, но относятся ко всем типам беспозвоночных. Появление первичных хордовых — подтипа бесчерепных
Архейская (самая древняя в истории Земли),около 1000	Возможно, >3500		Следы жизни незначительны

6. На рисунке изображён бронтозавр — вымершее животное, обитавшее 157–146 млн лет назад.



Используя фрагмент геохронологической таблицы, установите эру и период, в который обитал данный организм, а также животных (на уровне класса), которые стали вытеснять группу живых существ, к которой принадлежит изображённый на рисунке организм. Поясните, почему эти животные смогли вытеснить динозавров.

Геохронологическая таблица

ЭРА, возраст в млн лет	Период	Животный мир

Кайнозойская, 62—70	**Неоген**	Господство млекопитающих, птиц, насекомых (появление разнообразных отрядов), исчезают многие группы пресмыкающихся, головоногих моллюсков; появление парапитеков и дриопитеков
	Палеоген	Расцвет млекопитающих, птиц, насекомых; появление приматов (лемуры, долгопяты)
Мезозойская, 240	**Мел**	Преобладают костистые рыбы, первоптицы, мелкие млекопитающие; появляются и распространяются сумчатые и плацентарные млекопитающие и настоящие птицы; вымирают гигантские пресмыкающиеся; расцвет насекомых
	Юра	Господствуют гигантские пресмыкающиеся, костистые рыбы, головоногие моллюски, насекомые; появляется археоптерикс; древние хрящевые рыбы вымирают
	Триас	Преобладают земноводные, головоногие моллюски, растительноядные и хищные пресмыкающиеся; появляются костистые рыбы, яйцекладущие и сумчатые млекопитающие
Палеозойская, 570	**Пермь**	Господствуют морские беспозвоночные, акулы; быстро развиваются пресмыкающиеся и насекомые; появляются травоядные и зверозубые рептилии; стегоцефалы и трилобиты вымирают
	Карбон	Широкое распространение кораллов, моллюсков, акул, двоякодышащих рыб; расцвет земноводных; появляются первые рептилии — котилозавры; появляются и быстро развиваются летающие насекомые, пауки, скорпионы; заметно уменьшается численность трилобитов и стегоцефалов
	Девон	Появление рыб всех известных крупных систематических групп; вымирание значительного количества беспозвоночных и большинства бесчелюстных; освоение животными суши (членистоногие); появляются кистепёрые, двоякодышащие и лучепёрые рыбы, а также первые наземные позвоночные — стегоцефалы
	Силур	Появляются древнейшие рыбы и первые дышащие атмосферным воздухом наземные беспозвоночные животные — скорпионы, многоножки, бескрылые насекомые; богатая фауна трилобитов, моллюсков, кораллов; появляются панцирные рыбы
	Ордовик	Появление первых позвоночных — бесчелюстных (щитковые); господство кораллов, иглокожих, трилобитов
	Кембрий	Расцвет морских беспозвоночных

7. На рисунке изображён тираннозавр — вымершее животное, обитавшее 68 млн лет назад.



Используя фрагмент геохронологической таблицы, установите эру и период, в который обитал данный организм, укажите, к какому классу относится данное животное.

Какие черты строения позволяют отнести его к этому классу?

Геохронологическая таблица

ЭРА		**Период и продолжительность (в млн лет)**	**Животный и растительный мир**
Название и продолжительность (в млн лет)	**Возраст (в млн лет назад)**		
Кайнозойская (новой жизни), 67	67	Антропоген, 1,5	Появление и развитие человека. Формирование существующих растительных сообществ. Животный мир принял современный облик
		Неоген, 23,5	Господство млекопитающих и птиц
		Палеоген, 42	Появление хвостатых лемуров, долгопятов, позднее — парапитеков, дриопитеков. Бурный расцвет насекомых. Продолжается вымирание крупных пресмыкающихся. Исчезают многие группы головоногих моллюсков. Господство покрытосеменных растений
Мезозойская (средней жизни), 163	230	Меловой, 70	Появление высших млекопитающих и настоящих птиц, хотя зубастые птицы ещё распространены. Преобладают костистые рыбы. Сокращение многообразия папоротников и голосеменных растений. Появление и распространение покрытосеменных растений
		Юрский, 58	Господство пресмыкающихся. Появление археоптерикса. Процветание головоногих моллюсков. Господство голосеменных
		Триасовый, 35	Начало расцвета пресмыкающихся. Появление первых млекопитающих, настоящих костистых рыб

Палеозойская (древней жизни), 340	Возможно, 570	Пермский, 55	Быстрое развитие пресмыкающихся. Возникновение зверозубых пресмыкающихся. Вымирание трилобитов. Исчезновение каменноугольных лесов. Богатая флора голосеменных
		Каменноугольный, 75–65	Расцвет земноводных. Появление первых пресмыкающихся. Появление летающих форм насекомых, пауков, скорпионов. Заметное уменьшение трилобитов. Расцвет папоротникообразных. Появление семенных папоротников
		Девонский, 60	Расцвет щитковых. Появление кистепёрых рыб. Появление стегоцефалов. Распространение на суше высших споровых
		Силурийский, 30	Пышное развитие коралов, трилобитов. Появление бесчелюстных позвоночных — щитковых. Выход растений на сушу — псилофиты. Широкое распространение водорослей
		Ордовикский, 60 Кембрийский, 70	Процветают морские беспозвоночные. Широкое распространение трилобитов, водорослей
Протерозойская (ранней жизни), свыше 2000	2700		Органические остатки редки и малочисленны, но относятся ко всем типам беспозвоночных. Появление первичных хордовых — подтипа бесчерепных
Архейская (самая древняя в истории Земли),около 1000	Возможно, >3500		Следы жизни незначительны

8. На рисунке изображен платибелодон — вымершее животное, обитавшее 22–16 млн лет назад.

Используя фрагмент геохронологической таблицы, установите эру и период, в который обитал данный организм, а также «близких родственников» данного животного в современной фауне (ответ — на уровне рода).

К какому классу относится данное животное? Укажите признаки, по которым Вы определили класс.

Геохронологическая таблица

ЭРА		Период и продолжительность (в млн лет)	Животный и растительный мир
Название и продолжительность (в млн лет)	Начало (млн лет назад)		

Кайнозойская, 67	67	Антропоген, 1,5	Появление и развитие человека. Животный мир принял современный облик
		Неоген, 23,5	Господство млекопитающих и птиц
		Палеоген, 42	Появление хвостатых лемуров, позднее — парапитеков, дриопитеков. Бурный расцвет насекомых. Продолжается вымирание крупных пресмыкающихся. Исчезают многие группы головоногих моллюсков. Господство покрытосеменных растений
Мезозойская, 163	230	Меловой, 70	Появление высших млекопитающих и настоящих птиц, хотя зубастые птицы ещё распространены. Преобладают костистые рыбы. Сокращение папоротников и голосеменных растений. Появление и распространение покрытосеменных растений
		Юрский, 58	Появление первых птиц, примитивных млекопитающих, расцвет динозавров. Господство голосеменных. Процветание головоногих моллюсков
		Триасовый, 35	Начало расцвета пресмыкающихся. Появление костистых рыб
Палеозой, 340	Возможно, 570	Пермский, 55	Вымирание трилобитов. Возникновение зверозубых пресмыкающихся. Исчезновение каменноугольных лесов
		Каменноугольный, 75–65	Расцвет земноводных. Появление первых пресмыкающихся. Характерно разнообразие насекомых

9. На рисунке изображен самотерий — вымершее животное, обитавшее 12–6 млн лет назад.

Используя фрагмент геохронологической таблицы, установите эру и период, в который обитал данный организм, а также «близких родственников» данного животного в современной фауне (ответ — на уровне рода).

К какому классу относится данное животное? Укажите признаки, по которым Вы определили класс.

Геохронологическая таблица

ЭРА		Период и продолжительность (в млн лет)	Животный и растительный мир
Название и продолжительность (в млн лет)	Начало (млн лет назад)		
Кайнозойская, 67	67	Антропоген, 1,5	Появление и развитие человека. Животный мир принял современный облик
		Неоген, 23,5	Господство млекопитающих и птиц
		Палеоген, 42	Появление хвостатых лемуров, позднее — парапитеков, дриопитеков. Бурный расцвет насекомых. Продолжается вымирание крупных пресмыкающихся. Исчезают многие группы головоногих моллюсков. Господство покрытосеменных растений
Мезозойская, 163	230	Меловой, 70	Появление высших млекопитающих и настоящих птиц, хотя зубастые птицы ещё распространены. Преобладают костистые рыбы. Сокращение папоротников и голосеменных растений. Появление и распространение покрытосеменных растений
		Юрский, 58	Появление первых птиц, примитивных млекопитающих, расцвет динозавров. Господство голосеменных. Процветание головоногих моллюсков
		Триасовый, 35	Начало расцвета пресмыкающихся. Появление костистых рыб
Палеозой, 340	Возможно, 570	Пермский, 55	Вымирание трилобитов. Возникновение зверозубых пресмыкающихся. Исчезновение каменноугольных лесов
		Каменноугольный, 75–65	Расцвет земноводных. Появление первых пресмыкающихся. Характерно разнообразие насекомых

10. На рисунке изображен хилотерий — вымершее животное, обитавшее 6 млн лет назад.



Используя фрагмент геохронологической таблицы, установите эру и период, в который обитал данный организм, а также «близких родственников» данного животного в современной фауне (ответ — на уровне рода).

К какому классу относится данное животное? Укажите признаки, по которым Вы определили класс.

Геохронологическая таблица

ЭРА		Период и продолжительность (в млн лет)	Животный и растительный мир
Название и продолжительность (в млн лет)	Начало (млн лет назад)		
Кайнозойская, 67	67	Антропоген, 1,5	Появление и развитие человека. Животный мир принял современный облик
		Неоген, 23,5	Господство млекопитающих и птиц
		Палеоген, 42	Появление хвостатых лемуров, позднее — парапитеков, дриопитеков. Бурный расцвет насекомых. Продолжается вымирание крупных пресмыкающихся. Исчезают многие группы головоногих моллюсков. Господство покрытосеменных растений
Мезозойская, 163	230	Меловой, 70	Появление высших млекопитающих и настоящих птиц, хотя зубастые птицы ещё распространены. Преобладают костистые рыбы. Сокращение папоротников и голосеменных растений. Появление и распространение покрытосеменных растений
		Юрский, 58	Появление первых птиц, примитивных млекопитающих, расцвет динозавров. Господство голосеменных. Процветание головоногих моллюсков
		Триасовый, 35	Начало расцвета пресмыкающихся. Появление костистых рыб
Палеозой, 340	Возможно, 570	Пермский, 55	Вымирание трилобитов. Возникновение зверозубых пресмыкающихся. Исчезновение каменноугольных лесов
		Каменноугольный, 75–65	Расцвет земноводных. Появление первых пресмыкающихся. Характерно разнообразие насекомых

11. На рисунке изображен трагоцерус - вымершее животное, обитавшее 20–5,5 млн лет назад.



Используя фрагмент геохронологической таблицы, установите эру и период, в который обитал данный организм, а также «близких родственников» данного животного в современной фауне (ответ — на уровне рода).

К какому классу относится данное животное? Укажите признаки, по которым Вы определили класс.

Геохронологическая таблица

ЭРА		Период и продолжительность (в млн лет)	Животный и растительный мир
Название и продолжительность (в млн лет)	Начало (млн лет назад)		
Кайнозойская, 67	67	Антропоген, 1,5	Появление и развитие человека. Животный мир принял современный облик
		Неоген, 23,5	Господство млекопитающих и птиц
		Палеоген, 42	Появление хвостатых лемуров, позднее — парапитеков, дриопитеков. Бурный расцвет насекомых. Продолжается вымирание крупных пресмыкающихся. Исчезают многие группы головоногих моллюсков. Господство покрытосеменных растений
Мезозойская, 163	230	Меловой, 70	Появление высших млекопитающих и настоящих птиц, хотя зубастые птицы ещё распространены. Преобладают костистые рыбы. Сокращение папоротников и голосеменных растений. Появление и распространение покрытосеменных растений
		Юрский, 58	Появление первых птиц, примитивных млекопитающих, расцвет динозавров. Господство голосеменных. Процветание головоногих моллюсков
		Триасовый, 35	Начало расцвета пресмыкающихся. Появление костистых рыб
Палеозой, 340	Возможно, 570	Пермский, 55	Вымирание трилобитов. Возникновение зверозубых пресмыкающихся. Исчезновение каменноугольных лесов
		Каменноугольный, 75–65	Расцвет земноводных. Появление первых пресмыкающихся. Характерно разнообразие насекомых

12. На рисунке изображен цервавитус — вымершее животное, обитавшее 8 млн лет назад.

Используя фрагмент геохронологической таблицы, установите эру и период, в который обитал данный организм, а также «близких родственников» данного животного в современной фауне (ответ — на уровне рода).

К какому классу относится данное животное? Укажите признаки, по которым Вы определили класс.

Геохронологическая таблица

ЭРА		Период и продолжительность (в млн лет)	Животный и растительный мир
Название и продолжительность (в млн лет)	Начало (млн лет назад)		
Кайнозойская, 67	67	Антропоген, 1,5	Появление и развитие человека. Животный мир принял современный облик
		Неоген, 23,5	Господство млекопитающих и птиц
		Палеоген, 42	Появление хвостатых лемуров, позднее — парапитеков, дриопитеков. Бурный расцвет насекомых. Продолжается вымирание крупных пресмыкающихся. Исчезают многие группы головоногих моллюсков. Господство покрытосеменных растений
Мезозойская, 163	230	Меловой, 70	Появление высших млекопитающих и настоящих птиц, хотя зубастые птицы ещё распространены. Преобладают костистые рыбы. Сокращение папоротников и голосеменных растений. Появление и распространение покрытосеменных растений
		Юрский, 58	Появление первых птиц, примитивных млекопитающих, расцвет динозавров. Господство голосеменных. Процветание головоногих моллюсков
		Триасовый, 35	Начало расцвета пресмыкающихся. Появление костистых рыб
Палеозой, 340	Возможно, 570	Пермский, 55	Вымирание трилобитов. Возникновение зверозубых пресмыкающихся. Исчезновение каменноугольных лесов
		Каменноугольный, 75–65	Расцвет земноводных. Появление первых пресмыкающихся. Характерно разнообразие насекомых

13. На рисунке изображен Динотерий - вымершее животное, обитавшее 50–1,5 млн лет назад.



Используя фрагмент геохронологической таблицы, установите эру и период, в который обитал данный организм, а также «близких родственников» данного животного в современной фауне (ответ — на уровне рода).

К какому классу относится данное животное? Укажите признаки, по которым Вы определили класс.

Геохронологическая таблица

ЭРА		Период и продолжительность (в млн лет)	Животный и растительный мир
Название и продолжительность (в млн лет)	Начало (млн лет назад)		
Кайнозойская, 67	67	Антропоген, 1,5	Появление и развитие человека. Животный мир принял современный облик
		Неоген, 23,5	Господство млекопитающих и птиц
		Палеоген, 42	Появление хвостатых лемуров, позднее — парапитеков, дриопитеков. Бурный расцвет насекомых. Продолжается вымирание крупных пресмыкающихся. Исчезают многие группы головоногих моллюсков. Господство покрытосеменных растений
Мезозойская, 163	230	Меловой, 70	Появление высших млекопитающих и настоящих птиц, хотя зубастые птицы ещё распространены. Преобладают костистые рыбы. Сокращение папоротников и голосеменных растений. Появление и распространение покрытосеменных растений
		Юрский, 58	Появление первых птиц, примитивных млекопитающих, расцвет динозавров. Господство голосеменных. Процветание головоногих моллюсков
		Триасовый, 35	Начало расцвета пресмыкающихся. Появление костистых рыб
Палеозой, 340	Возможно, 570	Пермский, 55	Вымирание трилобитов. Возникновение зверозубых пресмыкающихся. Исчезновение каменноугольных лесов
		Каменноугольный, 75–65	Расцвет земноводных. Появление первых пресмыкающихся. Характерно разнообразие насекомых

14. На рисунке изображен пещерный медведь — вымершее животное, обитавшее 400 тыс. лет назад.

Используя фрагмент геохронологической таблицы, установите эру и период, в который обитал данный организм, а также «близких родственников» данного животного в современной фауне (ответ — на уровне вида).

К какому классу относится данное животное? Укажите признаки, по которым Вы определили класс.

Геохронологическая таблица

ЭРА		Период и продолжительность (в млн лет)	Животный и растительный мир
Название и продолжительность (в млн лет)	Начало (млн лет назад)		
Кайнозойская, 67	67	Антропоген, 1,5	Появление и развитие человека. Животный мир принял современный облик
		Неоген, 23,5	Господство млекопитающих и птиц
		Палеоген, 42	Появление хвостатых лемуров, позднее — парапитеков, дриопитеков. Бурный расцвет насекомых. Продолжается вымирание крупных пресмыкающихся. Исчезают многие группы головоногих моллюсков. Господство покрытосеменных растений
Мезозойская, 163	230	Меловой, 70	Появление высших млекопитающих и настоящих птиц, хотя зубастые птицы ещё распространены. Преобладают костистые рыбы. Сокращение папоротников и голосеменных растений. Появление и распространение покрытосеменных растений
		Юрский, 58	Появление первых птиц, примитивных млекопитающих, расцвет динозавров. Господство голосеменных. Процветание головоногих моллюсков
		Триасовый, 35	Начало расцвета пресмыкающихся. Появление костистых рыб
Палеозой, 340	Возможно, 570	Пермский, 55	Вымирание трилобитов. Возникновение зверозубых пресмыкающихся. Исчезновение каменноугольных лесов
		Каменноугольный, 75–65	Расцвет земноводных. Появление первых пресмыкающихся. Характерно разнообразие насекомых

15. На рисунке изображен большерогий олень - вымершее животное, обитавшее 400–7,6 тыс. лет назад.



Используя фрагмент геохронологической таблицы, установите эру и период, в который обитал данный организм. Предположите причину вымирания данного животного.

Геохронологическая таблица

ЭРА		Период и продолжительность (в млн лет)	Животный и растительный мир
Название и продолжительность (в млн лет)	Начало (млн лет назад)		
Кайнозойская, 67	67	Антропоген, 1,5	Появление и развитие человека. Животный мир принял современный облик
		Неоген, 23,5	Господство млекопитающих и птиц
		Палеоген, 42	Появление хвостатых лемуров, позднее — парапитеков, дриопитеков. Бурный расцвет насекомых. Продолжается вымирание крупных пресмыкающихся. Исчезают многие группы головоногих моллюсков. Господство покрытосеменных растений
Мезозойская, 163	230	Меловой, 70	Появление высших млекопитающих и настоящих птиц, хотя зубастые птицы ещё распространены. Преобладают костистые рыбы. Сокращение папоротников и голосеменных растений. Появление и распространение покрытосеменных растений
		Юрский, 58	Появление первых птиц, примитивных млекопитающих, расцвет динозавров. Господство голосеменных. Процветание головоногих моллюсков
		Триасовый, 35	Начало расцвета пресмыкающихся. Появление костистых рыб
Палеозой, 340	Возможно, 570	Пермский, 55	Вымирание трилобитов. Возникновение зверозубых пресмыкающихся. Исчезновение каменноугольных лесов
		Каменноугольный, 75–65	Расцвет земноводных. Появление первых пресмыкающихся. Характерно разнообразие насекомых

16. На рисунке изображен сайгак — вымершее животное, обитавшее 250 тыс. лет назад.

Используя фрагмент геохронологической таблицы, установите эру и период, в который обитал данный организм, а также «близких родственников» данного животного в современной фауне (ответ — на уровне рода).

К какому классу относится данное животное? — укажите признаки по которым Вы определили класс.

Геохронологическая таблица

ЭРА		Период и продолжительность (в млн лет)	Животный и растительный мир
Название и продолжительность (в млн лет)	Начало (млн лет назад)		
Кайнозойская, 67	67	Антропоген, 1,5	Появление и развитие человека. Животный мир принял современный облик
		Неоген, 23,5	Господство млекопитающих и птиц
		Палеоген, 42	Появление хвостатых лемуров, позднее — парапитеков, дриопитеков. Бурный расцвет насекомых. Продолжается вымирание крупных пресмыкающихся. Исчезают многие группы головоногих моллюсков. Господство покрытосеменных растений
Мезозойская, 163	230	Меловой, 70	Появление высших млекопитающих и настоящих птиц, хотя зубастые птицы ещё распространены. Преобладают костистые рыбы. Сокращение папоротников и голосеменных растений. Появление и распространение покрытосеменных растений
		Юрский, 58	Появление первых птиц, примитивных млекопитающих, расцвет динозавров. Господство голосеменных. Процветание головоногих моллюсков
		Триасовый, 35	Начало расцвета пресмыкающихся. Появление костистых рыб
Палеозой, 340	Возможно, 570	Пермский, 55	Вымирание трилобитов. Возникновение зверозубых пресмыкающихся. Исчезновение каменноугольных лесов
		Каменноугольный, 75–65	Расцвет земноводных. Появление первых пресмыкающихся. Характерно разнообразие насекомых

17. На рисунке изображен мамонт — вымершее животное, обитавшее 250–10 тысяч лет назад.

Используя фрагмент геохронологической таблицы, установите эру и период, в который обитал данный организм. Предположите причину вымирания данного животного.

Геохронологическая таблица

ЭРА		Период и продолжительность (в млн лет)	Животный и растительный мир
Название и продолжительность (в млн лет)	Начало (млн лет назад)		
Кайнозойская, 67	67	Антропоген, 1,5	Появление и развитие человека. Животный мир принял современный облик
		Неоген, 23,5	Господство млекопитающих и птиц
		Палеоген, 42	Появление хвостатых лемуров, позднее — парапитеков, дриопитеков. Бурный расцвет насекомых. Продолжается вымирание крупных пресмыкающихся. Исчезают многие группы головоногих моллюсков. Господство покрытосеменных растений
Мезозойская, 163	230	Меловой, 70	Появление высших млекопитающих и настоящих птиц, хотя зубастые птицы ещё распространены. Преобладают костистые рыбы. Сокращение папоротников и голосеменных растений. Появление и распространение покрытосеменных растений
		Юрский, 58	Появление первых птиц, примитивных млекопитающих, расцвет динозавров. Господство голосеменных. Процветание головоногих моллюсков
		Триасовый, 35	Начало расцвета пресмыкающихся. Появление костистых рыб
Палеозой, 340	Возможно, 570	Пермский, 55	Вымирание трилобитов. Возникновение зверозубых пресмыкающихся. Исчезновение каменноугольных лесов
		Каменноугольный, 75–65	Расцвет земноводных. Появление первых пресмыкающихся. Характерно разнообразие насекомых

18. На рисунке изображен белемнит - вымершее животное, обитавшее 440–410 млн лет назад.

Используя фрагмент геохронологической таблицы, установите эру и период, в который обитал данный организм, а также «близких родственников» данного животного в современной фауне (ответ — на уровне рода). Какие черты внешнего строения позволяют сделать такие выводы?

Геохронологическая таблица

ЭРА		**Период и продолжительность (в млн лет)**	**Животный и растительный мир**
Название и продолжительность (в млн лет)	**Возраст (в млн лет назад)**		
Кайнозойская (новой жизни), 67	67	Антропоген, 1,5	Появление и развитие человека. Формирование существующих растительных сообществ. Животный мир принял современный облик
		Неоген, 23,5	Господство млекопитающих и птиц
		Палеоген, 42	Появление хвостатых лемуров, долгопятов, позднее — парапитеков, дриопитеков. Бурный расцвет насекомых. Продолжается вымирание крупных пресмыкающихся. Исчезают многие группы головоногих моллюсков. Господство покрытосеменных растений

Мезозойская (средней жизни), 163	230	Меловой, 70	Появление высших млекопитающих и настоящих птиц, хотя зубастые птицы ещё распространены. Преобладают костистые рыбы. Сокращение многообразия папоротников и голосеменных растений. Появление и распространение покрытосеменных растений
		Юрский, 58	Господство пресмыкающихся. Появление археоптерикса. Процветание головоногих моллюсков. Господство голосеменных
		Триасовый, 35	Начало расцвета пресмыкающихся. Появление первых млекопитающих, настоящих костистых рыб
Палеозойская (древней жизни), 340	Возможно, 570	Пермский, 55	Быстрое развитие пресмыкающихся. Возникновение зверозубых пресмыкающихся. Вымирание трилобитов. Исчезновение каменноугольных лесов. Богатая флора голосеменных
		Каменноугольный, 75—65	Расцвет земноводных. Появление первых пресмыкающихся. Появление летающих форм насекомых, пауков, скорпионов. Заметное уменьшение трилобитов. Расцвет папоротникообразных. Появление семенных папоротников
		Девонский, 60	Расцвет щитковых. Появление кистепёрых рыб. Появление стегоцефалов. Распространение на суше высших споровых
		Силурийский, 30	Пышное развитие коралов, трилобитов. Появление бесчелюстных позвоночных — щитковых. Выход растений на сушу — псилофиты. Широкое распространение водорослей
		Ордовикский, 60 Кембрийский, 70	Процветают морские беспозвоночные. Широкое распространение трилобитов, водорослей
Протерозойская (ранней жизни), свыше 2000	2700		Органические остатки редки и малочисленны, но относятся ко всем типам беспозвоночных. Появление первичных хордовых — подтипа бесчерепных
Архейская (самая древняя в истории Земли),около 1000	Возможно, >3500		Следы жизни незначительны

19. На рисунке изображен ракоскорпион — вымершее животное, обитавшее 420 млн лет назад.

Используя фрагмент геохронологической таблицы, установите эру и период, в который обитал данный организм, а также укажите, какие представители членистоногих обитали в этом же периоде (ответ — на уровне рода). Укажите признаки членистоногих у ракоскорпиона.

Геохронологическая таблица

ЭРА		**Период и продолжительность (в млн лет)**	**Животный и растительный мир**
Название и продолжительность (в млн лет)	**Возраст (в млн лет назад)**		
Кайнозойская (новой жизни), 67	67	Антропоген, 1,5	Появление и развитие человека. Формирование существующих растительных сообществ. Животный мир принял современный облик
		Неоген, 23,5	Господство млекопитающих и птиц
		Палеоген, 42	Появление хвостатых лемуров, долгопятов, позднее — парапитеков, дриопитеков. Бурный расцвет насекомых. Продолжается вымирание крупных пресмыкающихся. Исчезают многие группы головоногих моллюсков. Господство покрытосеменных растений

Мезозойская (средней жизни), 163	230	Меловой, 70	Появление высших млекопитающих и настоящих птиц, хотя зубастые птицы ещё распространены. Преобладают костистые рыбы. Сокращение многообразия папоротников и голосеменных растений. Появление и распространение покрытосеменных растений
		Юрский, 58	Господство пресмыкающихся. Появление археоптерикса. Процветание головоногих моллюсков. Господство голосеменных
		Триасовый, 35	Начало расцвета пресмыкающихся. Появление первых млекопитающих, настоящих костистых рыб
Палеозойская (древней жизни), 340	Возможно, 570	Пермский, 55	Быстрое развитие пресмыкающихся. Возникновение зверозубых пресмыкающихся. Вымирание трилобитов. Исчезновение каменноугольных лесов. Богатая флора голосеменных
		Каменноугольный, 75—65	Расцвет земноводных. Появление первых пресмыкающихся. Появление летающих форм насекомых, пауков, скорпионов. Заметное уменьшение трилобитов. Расцвет папоротникообразных. Появление семенных папоротников
		Девонский, 60	Расцвет щитковых. Появление кистепёрых рыб. Появление стегоцефалов. Распространение на суше высших споровых
		Силурийский, 30	Пышное развитие кораллов, трилобитов. Появление бесчелюстных позвоночных — щитковых. Выход растений на сушу — псилофиты. Широкое распространение водорослей
		Ордовикский, 60 Кембрийский, 70	Процветают морские беспозвоночные. Широкое распространение трилобитов, водорослей
Протерозойская (ранней жизни), свыше 2000	2700		Органические остатки редки и малочисленны, но относятся ко всем типам беспозвоночных. Появление первичных хордовых — подтипа бесчерепных
Архейская (самая древняя в истории Земли),около 1000	Возможно, >3500		Следы жизни незначительны

20. На рисунке изображена кистеперая рыба — вымершее животное, обитавшее 370 млн лет назад.

Используя фрагмент геохронологической таблицы, установите эру и период, в который обитал данный организм, а также укажите группу организмов, которые произошли от данного животного (ответ — на уровне класса). Назовите основные ароморфозы, позволившие организмам обитать на суше.

Геохронологическая таблица

ЭРА		Период и продолжительность (в млн лет)	Животный и растительный мир
Название и продолжительность (в млн лет)	Возраст (в млн лет назад)		
Кайнозойская (новой жизни), 67	67	Антропоген, 1,5	Появление и развитие человека. Формирование существующих растительных сообществ. Животный мир принял современный облик
		Неоген, 23,5	Господство млекопитающих и птиц
		Палеоген, 42	Появление хвостатых лемуров, долгопятов, позднее — парапитеков, дриопитеков. Бурный расцвет насекомых. Продолжается вымирание крупных пресмыкающихся. Исчезают многие группы головоногих моллюсков. Господство покрытосеменных растений
Мезозойская (средней жизни), 163	230	Меловой, 70	Появление высших млекопитающих и настоящих птиц, хотя зубастые птицы ещё распространены. Преобладают костистые рыбы. Сокращение многообразия папоротников и голосеменных растений. Появление и распространение покрытосеменных растений
		Юрский, 58	Господство пресмыкающихся. Появление археоптерикса. Процветание головоногих моллюсков. Господство голосеменных
		Триасовый, 35	Начало расцвета пресмыкающихся. Появление первых млекопитающих, настоящих костистых рыб

Палеозойская (древней жизни), 340	Возможно, 570	Пермский, 55	Быстрое развитие пресмыкающихся. Возникновение зверозубых пресмыкающихся. Вымирание трилобитов. Исчезновение каменноугольных лесов. Богатая флора голосеменных
		Каменноугольный, 75—65	Расцвет земноводных. Появление первых пресмыкающихся. Появление летающих форм насекомых, пауков, скорпионов. Заметное уменьшение трилобитов. Расцвет папоротникообразных. Появление семенных папоротников
		Девонский, 60	Расцвет щитковых. Появление кистепёрых рыб. Появление стегоцефалов. Распространение на суше высших споровых
		Силурийский, 30	Пышное развитие коралов, трилобитов. Появление бесчелюстных позвоночных — щитковых. Выход растений на сушу — псилофиты. Широкое распространение водорослей
		Ордовикский, 60 Кембрийский, 70	Процветают морские беспозвоночные. Широкое распространение трилобитов, водорослей
Протерозойская (ранней жизни), свыше 2000	2700		Органические остатки редки и малочисленны, но относятся ко всем типам беспозвоночных. Появление первичных хордовых — подтипа бесчерепных
Архейская (самая древняя в истории Земли),около 1000	Возможно, >3500		Следы жизни незначительны

21. На рисунке изображен палеодиктиоптер — вымершее животное, обитавшее 290 млн лет назад.

Используя фрагмент геохронологической таблицы, установите эру и период, в который обитал данный организм, а также «близких родственников» данного животного в современной фауне (ответ — на уровне рода), укажите признаки, по которым Вы отнесли палеодиктиоптера к этому роду.

Геохронологическая таблица

ЭРА	Период и

продолжительность (в млн лет)	Животный и растительный мир	Название и продолжительность (в млн лет)	Возраст (в млн лет назад)
Кайнозойская (новой жизни), 67	67	Антропоген, 1,5	Появление и развитие человека. Формирование существующих растительных сообществ. Животный мир принял современный облик
		Неоген, 23,5	Господство млекопитающих и птиц
		Палеоген, 42	Появление хвостатых лемуров, долгопятов, позднее — парапитеков, дриопитеков. Бурный расцвет насекомых. Продолжается вымирание крупных пресмыкающихся. Исчезают многие группы головоногих моллюсков. Господство покрытосеменных растений
Мезозойская (средней жизни), 163	230	Меловой, 70	Появление высших млекопитающих и настоящих птиц, хотя зубастые птицы ещё распространены. Преобладают костистые рыбы. Сокращение многообразия папоротников и голосеменных растений. Появление и распространение покрытосеменных растений
		Юрский, 58	Господство пресмыкающихся. Появление археоптерикса. Процветание головоногих моллюсков. Господство голосеменных
		Триасовый, 35	Начало расцвета пресмыкающихся. Появление первых млекопитающих, настоящих костистых рыб
Палеозойская (древней жизни), 340	Возможно, 570	Пермский, 55	Быстрое развитие пресмыкающихся. Возникновение зверозубых пресмыкающихся. Вымирание трилобитов. Исчезновение каменноугольных лесов. Богатая флора голосеменных
		Каменноугольный, 75—65	Расцвет земноводных. Появление первых пресмыкающихся. Появление летающих форм насекомых, пауков, скорпионов. Заметное уменьшение трилобитов. Расцвет папоротникообразных. Появление семенных папоротников
		Девонский, 60	Расцвет щитковых. Появление кистепёрых рыб. Появление стегоцефалов. Распространение на суше высших споровых
		Силурийский, 30	Пышное развитие кораллов, трилобитов. Появление бесчелюстных позвоночных — щитковых. Выход растений на сушу — псилофиты. Широкое распространение водорослей

Палеозойская (древней жизни), 340	Возможно, 570	Ордовикский, 60 Кембрийский, 70	Процветают морские беспозвоночные. Широкое распространение трилобитов, водорослей
Протерозойская (ранней жизни), свыше 2000	2700		Органические остатки редки и малочисленны, но относятся ко всем типам беспозвоночных. Появление первичных хордовых — подтипа бесчерепных
Архейская (самая древняя в истории Земли),около 1000	Возможно, >3500		Следы жизни незначительны

22. На рисунке изображен эдафозавр — вымершее животное, обитавшее 280 млн лет назад.

Используя фрагмент геохронологической таблицы, установите эру и период, в который обитал данный организм, а также укажите, к какому классу относится данное животное. Поясните значение костных выростов на спине.

Геохронологическая таблица

ЭРА		Период и продолжительность (в млн лет)	Животный и растительный мир
Название и продолжительность (в млн лет)	Возраст (в млн лет назад)		
Кайнозойская (новой жизни), 67	67	Антропоген, 1,5	Появление и развитие человека. Формирование существующих растительных сообществ. Животный мир принял современный облик
		Неоген, 23,5	Господство млекопитающих и птиц
		Палеоген, 42	Появление хвостатых лемуров, долгопятов, позднее — парапитеков, дриопитеков. Бурный расцвет насекомых. Продолжается вымирание крупных пресмыкающихся. Исчезают многие группы головоногих моллюсков. Господство покрытосеменных растений
Мезозойская (средней жизни), 163	230	Меловой, 70	Появление высших млекопитающих и настоящих птиц, хотя зубастые птицы ещё распространены. Преобладают костистые рыбы. Сокращение многообразия папоротников и голосеменных растений. Появление и распространение покрытосеменных растений
		Юрский, 58	Господство пресмыкающихся. Появление археоптерикса. Процветание головоногих моллюсков. Господство голосеменных
		Триасовый, 35	Начало расцвета пресмыкающихся. Появление первых млекопитающих, настоящих костистых рыб

Палеозойская (древней жизни), 340	Возможно, 570	Пермский, 55	Быстрое развитие пресмыкающихся. Возникновение зверозубых пресмыкающихся. Вымирание трилобитов. Исчезновение каменноугольных лесов. Богатая флора голосеменных
		Каменноугольный, 75—65	Расцвет земноводных. Появление первых пресмыкающихся. Появление летающих форм насекомых, пауков, скорпионов. Заметное уменьшение трилобитов. Расцвет папоротникообразных. Появление семенных папоротников
		Девонский, 60	Расцвет щитковых. Появление кистепёрых рыб. Появление стегоцефалов. Распространение на суше высших споровых
		Силурийский, 30	Пышное развитие коралов, трилобитов. Появление бесчелюстных позвоночных — щитковых. Выход растений на сушу — псилофиты. Широкое распространение водорослей
		Ордовикский, 60 Кембрийский, 70	Процветают морские беспозвоночные. Широкое распространение трилобитов, водорослей
Протерозойская (ранней жизни), свыше 2000	2700		Органические остатки редки и малочисленны, но относятся ко всем типам беспозвоночных. Появление первичных хордовых — подтипа бесчерепных
Архейская (самая древняя в истории Земли),около 1000	Возможно, >3500		Следы жизни незначительны

23. На рисунке изображен скутозавр — вымершее животное, обитавшее 240 млн лет назад.

Используя фрагмент геохронологической таблицы, установите эру и период, в который обитал данный организм, а также укажите, к какому классу относится данное животное. Чем питалось указанное животное, по каким признакам Вы это определили?

Геохронологическая таблица

ЭРА		Период и продолжительность (в млн лет)	Животный и растительный мир
Название и продолжительность (в млн лет)	Возраст (в млн лет назад)		
Кайнозойская (новой жизни), 67	67	Антропоген, 1,5	Появление и развитие человека. Формирование существующих растительных сообществ. Животный мир принял современный облик
		Неоген, 23,5	Господство млекопитающих и птиц
		Палеоген, 42	Появление хвостатых лемуров, долгопятов, позднее — парапитеков, дриопитеков. Бурный расцвет насекомых. Продолжается вымирание крупных пресмыкающихся. Исчезают многие группы головоногих моллюсков. Господство покрытосеменных растений
Мезозойская (средней жизни), 163	230	Меловой, 70	Появление высших млекопитающих и настоящих птиц, хотя зубастые птицы ещё распространены. Преобладают костистые рыбы. Сокращение многообразия папоротников и голосеменных растений. Появление и распространение покрытосеменных растений
		Юрский, 58	Господство пресмыкающихся. Появление археоптерикса. Процветание головоногих моллюсков. Господство голосеменных
		Триасовый, 35	Начало расцвета пресмыкающихся. Появление первых млекопитающих, настоящих костистых рыб

Палеозойская (древней жизни), 340	Возможно, 570	Пермский, 55	Быстрое развитие пресмыкающихся. Возникновение зверозубых пресмыкающихся. Вымирание трилобитов. Исчезновение каменноугольных лесов. Богатая флора голосеменных
		Каменноугольный, 75—65	Расцвет земноводных. Появление первых пресмыкающихся. Появление летающих форм насекомых, пауков, скорпионов. Заметное уменьшение трилобитов. Расцвет папоротникообразных. Появление семенных папоротников
		Девонский, 60	Расцвет щитковых. Появление кистепёрых рыб. Появление стегоцефалов. Распространение на суше высших споровых
		Силурийский, 30	Пышное развитие коралов, трилобитов. Появление бесчелюстных позвоночных — щитковых. Выход растений на сушу — псилофиты. Широкое распространение водорослей
		Ордовикский, 60 Кембрийский, 70	Процветают морские беспозвоночные. Широкое распространение трилобитов, водорослей
Протерозойская (ранней жизни), свыше 2000	2700		Органические остатки редки и малочисленны, но относятся ко всем типам беспозвоночных. Появление первичных хордовых — подтипа бесчерепных
Архейская (самая древняя в истории Земли),около 1000	Возможно, >3500		Следы жизни незначительны

24. На рисунке изображен рабидозавр — вымершее животное, обитавшее 220 млн лет назад.

Используя фрагмент геохронологической таблицы, установите эру и период, в который обитал данный организм, а также укажите, к какому классу относится данное животное. Укажите признаки, по которым Вы определили класс.

Геохронологическая таблица

ЭРА		Период и продолжительность (в млн лет)	Животный и растительный мир
Название и продолжительность (в млн лет)	Возраст (в млн лет назад)		
Кайнозойская (новой жизни), 67	67	Антропоген, 1,5	Появление и развитие человека. Формирование существующих растительных сообществ. Животный мир

			принял современный облик
		Неоген, 23,5	Господство млекопитающих и птиц
		Палеоген, 42	Появление хвостатых лемуров, долгопятов, позднее — парапитеков, дриопитеков. Бурный расцвет насекомых. Продолжается вымирание крупных пресмыкающихся. Исчезают многие группы головоногих моллюсков. Господство покрытосеменных растений
Мезозойская (средней жизни), 163	230	Меловой, 70	Появление высших млекопитающих и настоящих птиц, хотя зубастые птицы ещё распространены. Преобладают костистые рыбы. Сокращение многообразия папоротников и голосеменных растений. Появление и распространение покрытосеменных растений
		Юрский, 58	Господство пресмыкающихся. Появление археоптерикса. Процветание головоногих моллюсков. Господство голосеменных
		Триасовый, 35	Начало расцвета пресмыкающихся. Появление первых млекопитающих, настоящих костистых рыб
Палеозойская (древней жизни), 340	Возможно, 570	Пермский, 55	Быстрое развитие пресмыкающихся. Возникновение зверозубых пресмыкающихся. Вымирание трилобитов. Исчезновение каменноугольных лесов. Богатая флора голосеменных
		Каменноугольный, 75—65	Расцвет земноводных. Появление первых пресмыкающихся. Появление летающих форм насекомых, пауков, скорпионов. Заметное уменьшение трилобитов. Расцвет папоротникообразных. Появление семенных папоротников
		Девонский, 60	Расцвет щитковых. Появление кистепёрых рыб. Появление стегоцефалов. Распространение на суше высших споровых
		Силурийский, 30	Пышное развитие коралов, трилобитов. Появление бесчелюстных позвоночных — щитковых. Выход растений на сушу — псилофиты. Широкое распространение водорослей
		Ордовикский, 60 Кембрийский, 70	Процветают морские беспозвоночные. Широкое распространение трилобитов, водорослей

			ых — подтипа бесчерепных
Архейская (самая древняя в истории Земли),около 1000	Возможно, >3500		Следы жизни незначительны

25. На рисунке изображен аммонит — вымершее животное, обитавшее 220 млн лет назад.

Используя фрагмент геохронологической таблицы, установите эру и период, в который обитал данный организм, а также «близких родственников» данного животного в современной фауне (ответ — на уровне рода). Укажите признаки, по котрым Вы сделали данный вывод.

Геохронологическая таблица

ЭРА		**Период и продолжительность (в млн лет)**	**Животный и растительный мир**
Название и продолжительность (в млн лет)	**Возраст (в млн лет назад)**		
Кайнозойская (новой жизни), 67	67	Антропоген, 1,5	Появление и развитие человека. Формирование существующих растительных сообществ. Животный мир принял современный облик
		Неоген, 23,5	Господство млекопитающих и птиц
		Палеоген, 42	Появление хвостатых лемуров, долгопятов, позднее — парапитеков, дриопитеков. Бурный расцвет насекомых. Продолжается вымирание крупных пресмыкающихся. Исчезают многие группы головоногих моллюсков. Господство покрытосеменных растений
Мезозойская (средней жизни), 163	230	Меловой, 70	Появление высших млекопитающих и настоящих птиц, хотя зубастые птицы ещё распространены. Преобладают костистые рыбы. Сокращение многообразия папоротников и голосеменных растений. Появление и распространение покрытосеменных растений
		Юрский, 58	Господство пресмыкающихся. Появление археоптерикса. Процветание головоногих моллюсков. Господство голосеменных
		Триасовый, 35	Начало расцвета пресмыкающихся. Появление первых млекопитающих, настоящих костистых рыб

Палеозойская (древней жизни), 340	Возможно, 570	Пермский, 55	Быстрое развитие пресмыкающихся. Возникновение зверозубых пресмыкающихся. Вымирание трилобитов. Исчезновение каменноугольных лесов. Богатая флора голосеменных
		Каменноугольный, 75—65	Расцвет земноводных. Появление первых пресмыкающихся. Появление летающих форм насекомых, пауков, скорпионов. Заметное уменьшение трилобитов. Расцвет папоротникообразных. Появление семенных папоротников
		Девонский, 60	Расцвет щитковых. Появление кистепёрых рыб. Появление стегоцефалов. Распространение на суше высших споровых
		Силурийский, 30	Пышное развитие коралов, трилобитов. Появление бесчелюстных позвоночных — щитковых. Выход растений на сушу — псилофиты. Широкое распространение водорослей
		Ордовикский, 60 Кембрийский, 70	Процветают морские беспозвоночные. Широкое распространение трилобитов, водорослей
Протерозойская (ранней жизни), свыше 2000	2700		Органические остатки редки и малочисленны, но относятся ко всем типам беспозвоночных. Появление первичных хордовых — подтипа бесчерепных
Архейская (самая древняя в истории Земли),около 1000	Возможно, >3500		Следы жизни незначительны

26. На рисунке изображена лонгисквама — вымершее животное, обитавшее 200 млн лет назад.

Используя фрагмент геохронологической таблицы, установите эру и период, в который обитал данный организм, а также укажите, к какому классу относится данное животное. Укажите, по каким признакам Вы определили класс.

Геохронологическая таблица

ЭРА		Период и продолжительность (в млн лет)	Животный и растительный мир
Название и продолжительность (в млн лет)	Возраст (в млн лет назад)		
Кайнозойская (новой жизни), 67	67	Антропоген, 1,5	Появление и развитие человека. Формирование существующих растительных сообществ. Животный мир

			принял современный облик
		Неоген, 23,5	Господство млекопитающих и птиц
		Палеоген, 42	Появление хвостатых лемуров, долгопятов, позднее — парапитеков, дриопитеков. Бурный расцвет насекомых. Продолжается вымирание крупных пресмыкающихся. Исчезают многие группы головоногих моллюсков. Господство покрытосеменных растений
Мезозойская (средней жизни), 163	230	Меловой, 70	Появление высших млекопитающих и настоящих птиц, хотя зубастые птицы ещё распространены. Преобладают костистые рыбы. Сокращение многообразия папоротников и голосеменных растений. Появление и распространение покрытосеменных растений
		Юрский, 58	Господство пресмыкающихся. Появление археоптерикса. Процветание головоногих моллюсков. Господство голосеменных
		Триасовый, 35	Начало расцвета пресмыкающихся. Появление первых млекопитающих, настоящих костистых рыб
Палеозойская (древней жизни), 340	Возможно, 570	Пермский, 55	Быстрое развитие пресмыкающихся. Возникновение зверозубых пресмыкающихся. Вымирание трилобитов. Исчезновение каменноугольных лесов. Богатая флора голосеменных
		Каменноугольный, 75—65	Расцвет земноводных. Появление первых пресмыкающихся. Появление летающих форм насекомых, пауков, скорпионов. Заметное уменьшение трилобитов. Расцвет папоротникообразных. Появление семенных папоротников
		Девонский, 60	Расцвет щитковых. Появление кистепёрых рыб. Появление стегоцефалов. Распространение на суше высших споровых
		Силурийский, 30	Пышное развитие коралов, трилобитов. Появление бесчелюстных позвоночных — щитковых. Выход растений на сушу — псилофиты. Широкое распространение водорослей
		Ордовикский, 60 Кембрийский, 70	Процветают морские беспозвоночные. Широкое распространение трилобитов, водорослей

			ых — подтипа бесчерепных
Архейская (самая древняя в истории Земли),около 1000	Возможно, >3500		Следы жизни незначительны

27. На рисунке изображен триконодон — вымершее животное, обитавшее 150 млн лет назад.

Используя фрагмент геохронологической таблицы, установите эру и период, в который обитал данный организм, а также укажите, к какому классу относится данное животное. Укажите признаки, по которым Вы определили класс.

Геохронологическая таблица

ЭРА		Период и продолжительность (в млн лет)	Животный и растительный мир
Название и продолжительность (в млн лет)	Возраст (в млн лет назад)		
Кайнозойская (новой жизни), 67	67	Антропоген, 1,5	Появление и развитие человека. Формирование существующих растительных сообществ. Животный мир принял современный облик
		Неоген, 23,5	Господство млекопитающих и птиц
		Палеоген, 42	Появление хвостатых лемуров, долгопятов, позднее — парапитеков, дриопитеков. Бурный расцвет насекомых. Продолжается вымирание крупных пресмыкающихся. Исчезают многие группы головоногих моллюсков. Господство покрытосеменных растений
Мезозойская (средней жизни), 163	230	Меловой, 70	Появление высших млекопитающих и настоящих птиц, хотя зубастые птицы ещё распространены. Преобладают костистые рыбы. Сокращение многообразия папоротников и голосеменных растений. Появление и распространение покрытосеменных растений
		Юрский, 58	Господство пресмыкающихся. Появление археоптерикса. Процветание головоногих моллюсков. Господство голосеменных
		Триасовый, 35	Начало расцвета пресмыкающихся. Появление первых млекопитающих, настоящих костистых рыб

			атая флора голосеменных
		Каменноугольный, 75—65	Расцвет земноводных. Появление первых пресмыкающихся. Появление летающих форм насекомых, пауков, скорпионов. Заметное уменьшение трилобитов. Расцвет папоротникообразных. Появление семенных папоротников
		Девонский, 60	Расцвет щитковых. Появление кистепёрых рыб. Появление стегоцефалов. Распространение на суше высших споровых
		Силурийский, 30	Пышное развитие кораллов, трилобитов. Появление бесчелюстных позвоночных — щитковых. Выход растений на сушу — псилофиты. Широкое распространение водорослей
		Ордовикский, 60 Кембрийский, 70	Процветают морские беспозвоночные. Широкое распространение трилобитов, водорослей
Протерозойская (ранней жизни), свыше 2000	2700		Органические остатки редки и малочисленны, но относятся ко всем типам беспозвоночных. Появление первичных хордовых — подтипа бесчерепных
Архейская (самая древняя в истории Земли),около 1000	Возможно, >3500		Следы жизни незначительны

28. На рисунке изображен тритемнодон — вымершее животное, обитавшее 50 млн лет назад.

Используя фрагмент геохронологической таблицы, установите эру и период, в который обитал данный организм, а также «близких родственников» данного животного в современной фауне (ответ — на уровне отряда, семейства). По каким признакам можно сделать данный вывод?

Геохронологическая таблица

ЭРА		**Период и продолжительность (в млн лет)**	**Животный и растительный мир**
Название и продолжительность (в млн лет)	**Возраст (в млн лет назад)**		

Кайнозойская (новой жизни), 67	67	Антропоген, 1,5	Появление и развитие человека. Формирование существующих растительных сообществ. Животный мир принял современный облик
		Неоген, 23,5	Господство млекопитающих и птиц
		Палеоген, 42	Появление хвостатых лемуров, долгопятов, позднее — парапитеков, дриопитеков. Бурный расцвет насекомых. Продолжается вымирание крупных пресмыкающихся. Исчезают многие группы головоногих моллюсков. Господство покрытосеменных растений
Мезозойская (средней жизни), 163	230	Меловой, 70	Появление высших млекопитающих и настоящих птиц, хотя зубастые птицы ещё распространены. Преобладают костистые рыбы. Сокращение многообразия папоротников и голосеменных растений. Появление и распространение покрытосеменных растений
		Юрский, 58	Господство пресмыкающихся. Появление археоптерикса. Процветание головоногих моллюсков. Господство голосеменных
		Триасовый, 35	Начало расцвета пресмыкающихся. Появление первых млекопитающих, настоящих костистых рыб
Палеозойская (древней жизни), 340	Возможно, 570	Пермский, 55	Быстрое развитие пресмыкающихся. Возникновение зверозубых пресмыкающихся. Вымирание трилобитов. Исчезновение каменноугольных лесов. Богатая флора голосеменных
		Каменноугольный, 75—65	Расцвет земноводных. Появление первых пресмыкающихся. Появление летающих форм насекомых, пауков, скорпионов. Заметное уменьшение трилобитов. Расцвет папоротникообразных. Появление семенных папоротников
		Девонский, 60	Расцвет щитковых. Появление кистепёрых рыб. Появление стегоцефалов. Распространение на суше высших споровых
		Силурийский, 30	Пышное развитие коралов, трилобитов. Появление бесчелюстных позвоночных — щитковых. Выход растений на сушу — псилофиты. Широкое распространение водорослей
		Ордовикский, 60 Кембрийский, 70	Процветают морские беспозвоночные. Широкое распространение трилобитов, водорослей

Протерозойская (ранней жизни), свыше 2000	2700		Органические остатки редки и малочисленны, но относятся ко всем типам беспозвоночных. Появление первичных хордовых — подтипа бесчерепных
Архейская (самая древняя в истории Земли),около 1000	Возможно, >3500		Следы жизни незначительны

29. На рисунке изображен эогиппус — вымершее животное, обитавшее 50 млн лет назад.

Используя фрагмент геохронологической таблицы, установите эру и период, в который обитал данный организм, а также «близких родственников» данного животного в современной фауне (ответ — на уровне рода).

К какому классу относится данное животное? Укажите признаки, по которым Вы определили класс.

Геохронологическая таблица

ЭРА		Период и продолжительность (в млн лет)	Животный и растительный мир
Название и продолжительность (в млн лет)	Возраст (в млн лет назад)		
Кайнозойская (новой жизни), 67	67	Антропоген, 1,5	Появление и развитие человека. Формирование существующих растительных сообществ. Животный мир принял современный облик
		Неоген, 23,5	Господство млекопитающих и птиц
		Палеоген, 42	Появление хвостатых лемуров, долгопятов, позднее — парапитеков, дриопитеков. Бурный расцвет насекомых. Продолжается вымирание крупных пресмыкающихся. Исчезают многие группы головоногих моллюсков. Господство покрытосеменных растений
Мезозойская (средней жизни), 163	230	Меловой, 70	Появление высших млекопитающих и настоящих птиц, хотя зубастые птицы ещё распространены. Преобладают костистые рыбы. Сокращение многообразия папоротников и голосеменных растений. Появление и распространение покрытосеменных растений
		Юрский, 58	Господство пресмыкающихся. Появление археоптерикса. Процветание головоногих моллюсков. Господство голосеменных
		Триасовый, 35	Начало расцвета пресмыкающихся. Появление первых млекопитающих, настоящих костистых рыб