Рассмотрите рисунок и выполните задание.

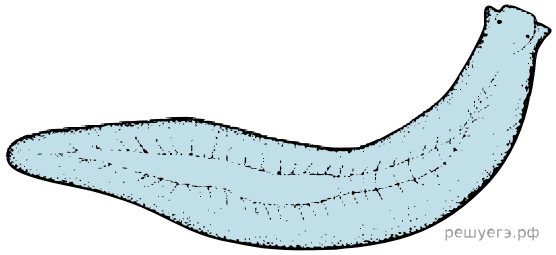

1

2

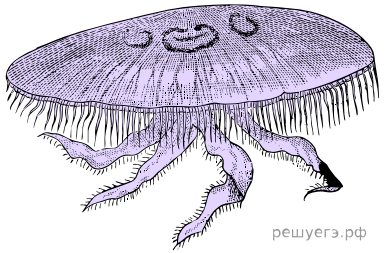

3



4



5



6

Установите соответствие между характеристиками и животными, изображёнными на рисунках 1, 2, 3: к каждой позиции, данной в первом столбце, подберите соответствующую позицию из второго столбца.

Вариант № 72513

ХАРАКТЕЕРИСТИКИ	ЖИВОТНЫЕ
А) наличие стрекательных клеток	1) 1
Б) кожно-мускульный мешок	2) 2
В) трахейное дыхание	3) 3
Г) незамкнутая кровеносная система	
Д) студенистая мезоглея	
Е) лестничная нервная система	

Запишите в ответ цифры, расположив их в порядке, соответствующем буквам:

А	Б	В	Г	Д	Е